On considère la figure ci-dessous :

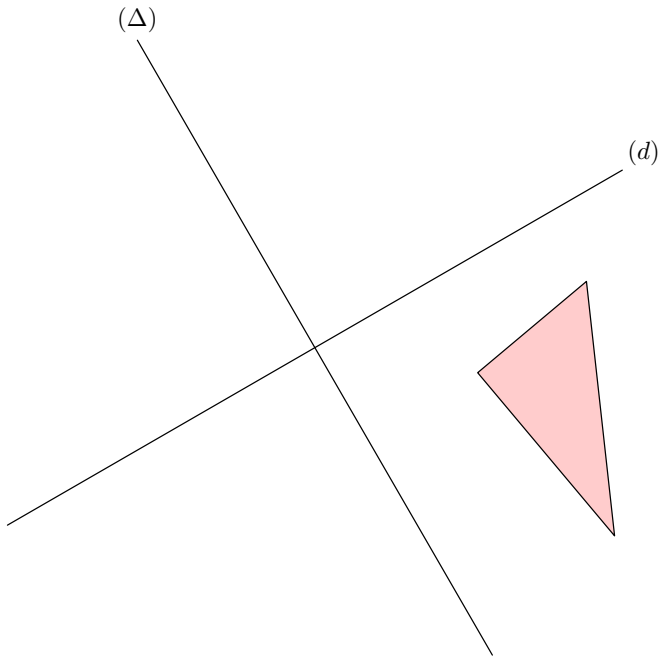

1. a. Tracer le triangle $A'B'C'$ image du triangle ABC par la symétrie d'axe (d).
   b. Tracer le triangle $A''B''C''$ image du triangle $A'B'C'$ par la symétrie d'axe (Δ).
   c. Pouvez vous décrire la symétrie qui transforme le triangle ABC en son image $A''B''C''$?
2. Télécharger le fichier ci-dessous pour réaliser ces mêmes questions sur Geogebra :
   `https://chingmath.fr/r888-0`

On considère la figure ci-dessous :

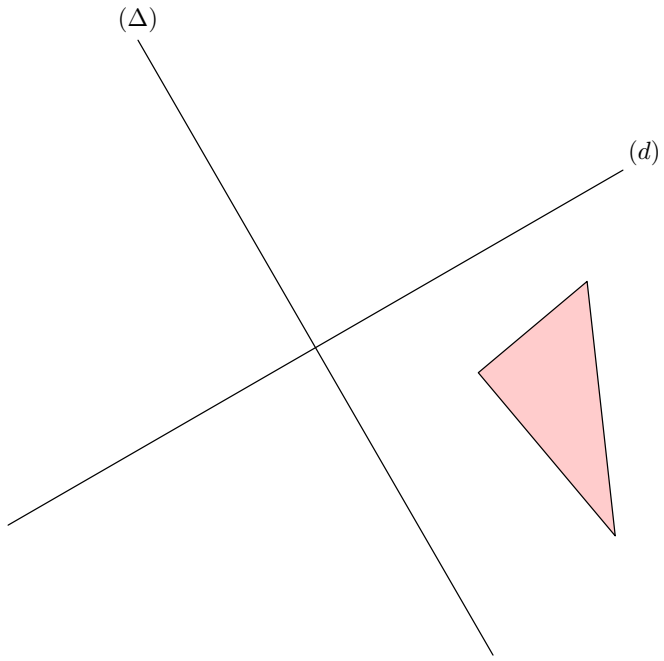

1. a. Tracer le triangle $A'B'C'$ image du triangle ABC par la symétrie d'axe (d).
   b. Tracer le triangle $A''B''C''$ image du triangle $A'B'C'$ par la symétrie d'axe (Δ).
   c. Pouvez vous décrire la symétrie qui transforme le triangle ABC en son image $A''B''C''$?
2. Télécharger le fichier ci-dessous pour réaliser ces mêmes questions sur Geogebra :
   `https://chingmath.fr/r888-0`

On considère la figure ci-dessous :

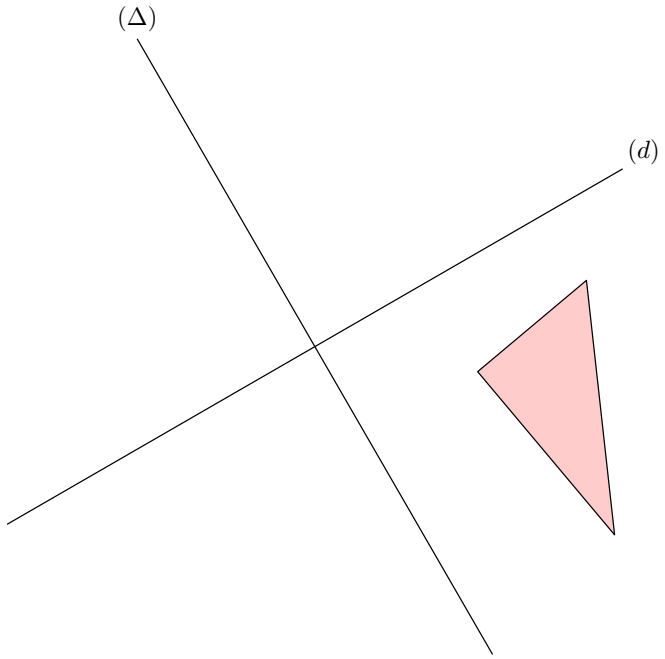

1. a. Tracer le triangle $A'B'C'$ image du triangle ABC par la symétrie d'axe (d).
   b. Tracer le triangle $A''B''C''$ image du triangle $A'B'C'$ par la symétrie d'axe (Δ).
   c. Pouvez vous décrire la symétrie qui transforme le triangle ABC en son image $A''B''C''$?
2. Télécharger le fichier ci-dessous pour réaliser ces mêmes questions sur Geogebra :
   `https://chingmath.fr/r888-0`

On considère la figure ci-dessous :

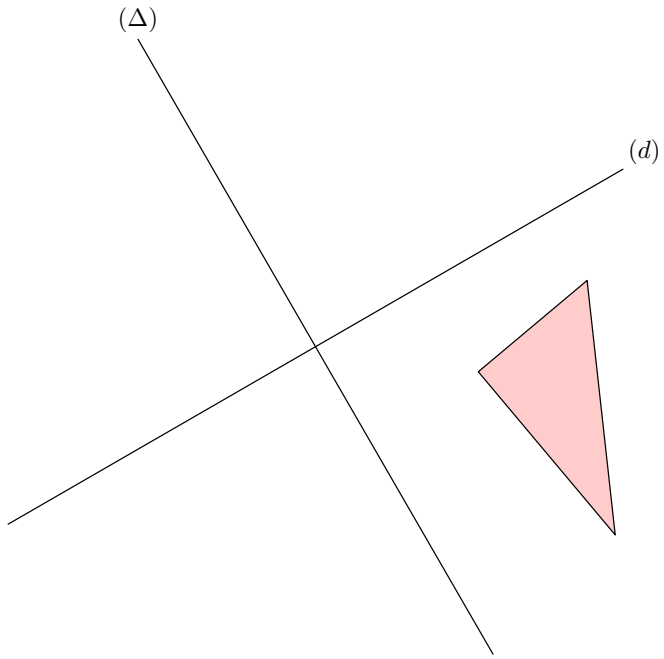

1. a. Tracer le triangle $A'B'C'$ image du triangle ABC par la symétrie d'axe (d).
   b. Tracer le triangle $A''B''C''$ image du triangle $A'B'C'$ par la symétrie d'axe (Δ).
   c. Pouvez vous décrire la symétrie qui transforme le triangle ABC en son image $A''B''C''$?
2. Télécharger le fichier ci-dessous pour réaliser ces mêmes questions sur Geogebra :
   `https://chingmath.fr/r888-0`

 CC BY-NC